スーパー
# 超ナビ

# 社会　第1回

1　(1)

真珠養殖で有名な志摩半島の英虞湾（あご）

重要①　リアス海岸は**山地が沈降した谷の部分に海水が入りこんでできた地形**で，波が穏やかであるため，養殖に適している。三陸海岸，志摩半島，若狭湾沿岸，**宇和海沿岸**などに見られる。

重要②　日本近海の海流については**コラム1**を参照。

(2)　**人口の多い中国**では，国内での消費量が多いため，小麦・米の生産量は上位だが，輸出量の上位には入らないことに注意しよう。

(3)　ＡＳＥＡＮ(東南アジア諸国連合)は，1967 年に東南アジア５か国で結成された，地域における経済協力や政治の安定などを目的とする組織である(**参考資料 1**)。東南アジア各国による工業団地の整備や，労働賃金の安さを生かした外国企業の受け入れなどにより工業化が進み，日本をはじめとする各国の自動車メーカーの生産拠点となっている国もある。

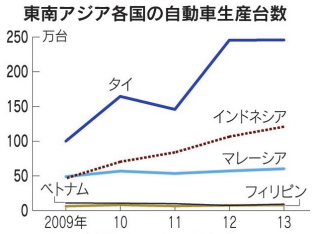

日本企業の自動車組み立て工場(タイ)

重要(4)　「フード・アクション・ニッポン」では，私たちができる５つの行動(①旬の食べものを選ぼう，②地元でとれる食材を食べよう，③米を中心に野菜もしっかり食べよう，④食べ残しを減らそう，⑤自給率を上げる取り組みを応援しよう)が示されている。このフード・アクション・ニッポンの活動によって、日本の食料自給率が上がることが期待されている。食料自給率ついては，**コラム２**と**参考資料2**を参照。

**参考資料2**

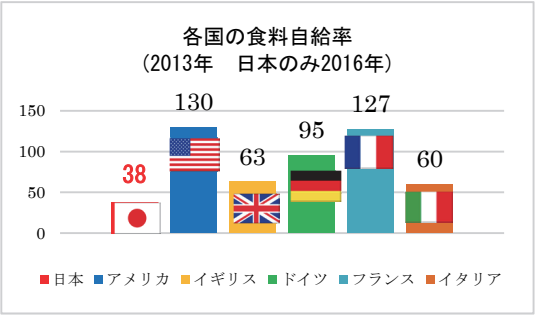





## コラム1

海流は海水の温度から暖流と寒流の２つにわけられます。日本の近海で有名な暖流には「黒潮(日本海流)」や「対馬海流」があります。黒潮の呼び名は，海水が黒っぽい濃い青色をしていることに由来します。寒流にはロシアのカムチャツカ半島の方向から南へ流れてくる千島海流があり，「親潮」と呼ばれています。親潮の呼び名は，プランクトンが豊富で，たくさんの魚を育てることに由来します。また，**親潮と黒潮がぶつかる潮目(潮境)は，好漁場となっています。**

**参考資料1**

ASEAN の旗

中央は稲の絵。東南アジアは米栽培の中心地でもあるよ！

加盟国は，インドネシア，カンボジア，シンガポール，タイ，フィリピン，ブルネイ，ベトナム，マレーシア，ミャンマー，ラオス（全 10 か国）

## コラム２

「食料自給率」は，国内で消費された食料のうち，国産のものの割合。日本のカロリーベースの自給率(野菜など低カロリーのものの影響が小さくなる算出方法)は38%前後，生産額ベースの自給率(重量を金額に換算して算出したもの)は 68%前後で推移しています。日本は，ほかの主要先進国に比べて食料自給率が低く，また，米や野菜などの自給率が高い反面，小麦や大豆などの自給率が低く輸入にたよっています。

2　(1)　い. 鎌倉幕府滅亡後，**後醍醐天皇**が行った政治を**建武の新政**という。建武の新政は**公家・天皇中心の政治**であったことから**武士らの反感を買い，２年あまりで失敗に終わった**。京都を追われた後醍醐天皇は奈良の吉野に逃れ，そこで南朝をたてた。京都では足利尊氏がすでに光明天皇を立てており，尊氏は 1338 年，征夷大将軍に任じられて，京都に室町幕府を開いた。

重要 (2)　摂政は天皇が幼少だったり女性だったりしたときに天皇に代わって政治を行う役職，関白は天皇が成人した後に政治を補佐する役職である。娘を天皇の后（きさき）とし，生まれた子を次の天皇に立て，自らは天皇の外戚として摂政や関白となって実権をにぎる政治を「**摂関政治**」と言い，**藤原道長・頼通親子の頃**に最もさかえた。摂関政治の権力の絶頂にあった道長が，自分の娘が立后したことへの喜びや満ち足りた様子を詠んだ「望月（もちづき）の歌」が有名である。

重要 (3)　「商工業者の力を利用した政策」から，**田沼意次**による**株仲間の結成の奨励**を導く。田沼は，印旛（いんば）沼の干拓を進めるなどして，商工業を活発にさせる政策を推し進めたが，天明のききん(1782～1787 年)のため，百姓一揆や打ちこわしが多く起こるようになると，その責任を追及され失脚した。**参考資料3**は，江戸時代の主な改革や政治について示した表である。その内容や実施した人物名，順などを押さえておこう。

**参考資料3**

| 政治 | 人物 | 主な内容 |
|---|---|---|
| 享保の改革 (1716～1745 年) | 徳川吉宗 | ・参勤交代の期間を短縮する代わりに，幕府に米を納めさせる(上げ米の制)<br>・民衆の意見を広く取り入れる目安箱の設置<br>・裁判の基準となる公事方御定書の制定 |
| 田沼意次の政治 | 田沼意次 | ・株仲間を奨励し，営業税を徴収<br>・長崎貿易を活発化させる |
| 寛政の改革 (1787～1793 年) | 松平定信 | ・昌平坂学問所をつくり，朱子学以外の学問を教えることを禁じる(寛政異学の禁)<br>・旗本や御家人の借金を帳消しにさせる(棄捐令（きえんれい）)<br>・1 万石につき 50 石の米を，社倉や義倉と呼ばれる穀物倉に備蓄させる(囲い米の制) |
| 天保の改革 (1841～1843 年) | 水野忠邦 | ・株仲間の解散を命じる<br>・江戸に出かせぎに来ている農民を村に帰らせる(人返し令)<br>・江戸や大阪周辺を直轄地にしようとする(上知令) |

重要 3　(3)　少子高齢化が進む中で，社会保険料を納める働く世代が減少する一方，年金や医療保険給付を受ける高齢者が増えており，社会保障制度の改革が議論されている。→**コラム3**

(4)①　間接税に対して，税を負担する人と納める人とが同じである税を**直接税**という。

②　税の種類については，**参考資料4**を参照。

**コラム3**

日本では 65 歳以上の高齢者の人口が増えて，若い世代の人口が減る**少子高齢化**が進んでいます。1980 年には働く世代（20～64 歳）が高齢者の 6.6 倍いましたが，2015 年には２倍程度になり，徐々に１人が１人を支える「肩車」型の社会になっていくと見こまれています。**高齢者の割合が増えると，年金や医療費，介護などの社会保障に必要なお金が増える**ことになります。その一方で、子どもの人数が減り若い世代が減ってしまうので，今後，どうやって社会保障に必要なお金を集めていくかということが大きな課題となっています。



65 歳以上１人に対する 20～64 歳の人数

人口の推移

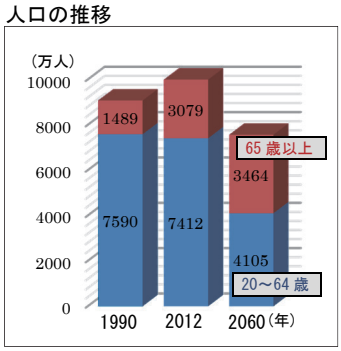


**参考資料4**

| | | 直接税 | 間接税 |
|---|---|---|---|
| 国税 | | 所得税<br>法人税<br>相続税<br>など | 消費税<br>酒税<br>関税<br>など |
| 地方税 | 道府県税 | 道府県民税<br>自動車税など | 地方消費税<br>など |
| | 市町村税 | 固定資産税<br>など | 入湯税<br>など |

スーパー 超ナビ

# 社会　第2回

1　(1)　イが正しい。1867 年，15 代将軍徳川慶喜が朝廷に政権を返す(**大政奉還**)と，公家の岩倉具視らが**王政復古の大号令**を発し，天皇中心の政治に戻すことを宣言した。その翌年に，新政府による徳川慶喜の扱いを不満に思う旧幕府側が，京都で薩長を中心とする新政府軍と交戦することで**戊辰戦争**が始まった(鳥羽・伏見の戦い)。鳥羽・伏見の戦いの後，会津戦争・函館五稜郭の戦い(1869 年)と続き，新政府軍の勝利で終わった。→**参考資料1**　1869 年，中央集権の国家を目指して**版籍奉還**が行われ，藩主から天皇に領地や人民が返還されたが，その後も目立った効果が得られなかったため，1871 年に明治政府は**廃藩置県**を実施し，江戸幕府の支配のしくみを完全に解体した。

(2)　資料１は，「国家の政治は世論に従って決定せよ」という意味である。「五箇条の御誓文」は天皇が神に誓う形式であらわされた。

**重要**(3)　1894 年に外務大臣**陸奥宗光**が**イギリス**との間で**領事裁判権(治外法権)の撤廃**に成功し，1911 年に外務大臣**小村寿太郎**が**アメリカ**との間で**関税自主権の完全回復**に成功した。

(4)　アが誤り。1937 年の日中戦争の勃発を機に，国民を戦争体制に全面的に協力させるため，近衛文麿内閣が国民精神総動員運動を推進した。**1938 年に国家総動員法**が制定され，**1940 年に大政翼賛会**が結成されたことを覚えておこう。→**コラム1**

**重要**(5)　**ＧＨＱ**(連合国軍総司令部)は，最高司令官として**マッカーサー**(**参考資料2**)が着任し，戦後の日本の民主化を進めた。ＧＨＱの基本方針には，日本が連合国の脅威にならないように徹底的に**非軍事化**することがあり，**軍隊を解散**させたり，戦争犯罪人(戦犯)を**極東国際軍事裁判**にかけて処罰したりするなどした。また，ＧＨＱの意向に従い，1946 年には昭和天皇が自分は神の子孫ではないとする「人間宣言」を発表した。

(6)①　ａは，「1972 年」「復帰」から沖縄県を，ｂは「サンフランシスコ平和条約と同時(1951 年)」「アメリカ軍の基地」から日米安全保障条約を導く。太平洋戦争が終結し，日本がサンフランシスコ平和条約で独立を回復した後も，沖縄はアメリカによって占領されたままになっていた。アメリカに占領されていた沖縄では，ドル紙幣が流通し，車は右側を走るなど，日本本土とは異なったルールが適用されていた。

**参考資料1**

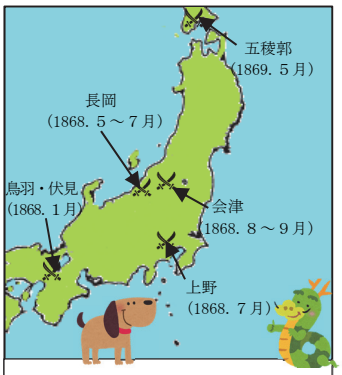


主な戦いが 1868 年の「戊辰」の年に起こったので戊辰戦争と呼ばれる。

**コラム1**

戦争が長引くと，軍需品の生産が優先され，生活物資が不足するようになりました。米や砂糖などの生活物資が配給制や切符制となり，「ぜいたくは敵だ」という標語のもと，国民生活への統制も強められました。

↓街角に立てられた看板



**参考資料2**

マッカーサー(左)と昭和天皇(右)

2

重要 (1)　第１次産業…農業・林業・漁業など，自然から動植物を得る基礎的な産業。

第２次産業…建設業・鉱業・製造業など，第一次産業で得られたもの(原料)を加工する産業。

第３次産業…サービス業・水道業・保険業など，ものの生産に直接かかわらない産業。

**京都府…西陣織・京扇子などの伝統産業が盛んである**

**東京都…町や駅ごとでの観光資源の違いや交通の便などを背景に，外国人の訪日旅行の中心である**

**沖縄県…観光サービス業が盛んである**

**北海道…農業・漁業が盛んである**

(2)　京都市では，歴史的景観を守るため，建築物のデザインや屋外広告物の規制などを全市的に見直し，街の風景に調和した景観づくりを実施している。京都市の他にも，全国には景観行政に取り組む自治体が多くある。→**参考資料3**

(3)　イ．大都市の周辺には，昼間は大都市で働いていたり学んだりして，夜間に家に帰ってきて生活する人々が多くいて，このような人々が住む町のことを「ベッドタウン」という。

(4)　「屋根のかわらをしっくいで固める」から南西諸島などで見られる台風対策を導こう。反対に，雪で屋根がわらがずれて雨漏りがしたり，内部に入りこんだ雪が凍結して屋根がわらが割れたりする恐れがあるため，北海道では屋根がわらの住居は少ない。

3　(1)　ウの合計特殊出生率は，１人の女性が生涯に生むと見込まれる子どもの数で，15～49 歳までの女性の年齢別出生率を合計して求める。少子化がどのくらい進んでいるかをはかるときなどに使われる。

(2)　無形文化遺産保護条約は，グローバル化や社会の変容などに伴い，無形文化遺産が衰退することや消滅することを防ぐため，ユネスコ総会において採択された。世界的に価値の高い芸能や伝承，社会慣習，儀式や祭礼，伝統工芸技術などが対象で，日本からは「能楽(→**参考資料4**)」「人形浄瑠璃文楽」「歌舞伎」なども登録されている。

重要 (3)　再生可能エネルギー(→コラム2)には，太陽光・風力・地熱・水力・波力・バイオマスなどがある。

(4)　「効率」は「無駄を省くこと」である。

**参考資料3**

伊勢神宮付近のコンビニ(三重県)

祇園の運送業者(京都府)

**参考資料4**

**「能楽」**

舞いや歌の要素をもつ音楽劇であり，能面をつけて演じられるという点で仮面劇ともいえます。

**コラム２**

化石燃料が限りのあるエネルギー資源であるのに対し，半永久的に使えるエネルギーを再生可能エネルギーといいます。日本の発電電力量全体における再生可能エネルギーの比率は，火力発電と比較して低く，その原因として，**発電費用が高くなること**や，**設置場所が限られること**，**天候などの影響を受けやすいこと**などが挙げられます。

→太陽光発電

←風力発電

スーパー
# 超ナビ

# 社会　第3回

1　(1)　経度０度，緯度０度を中心として地球儀を見ると，右図のように見える。明らかにヨーロッパとアフリカ北部を含むイの範囲の陸地面積が広い。

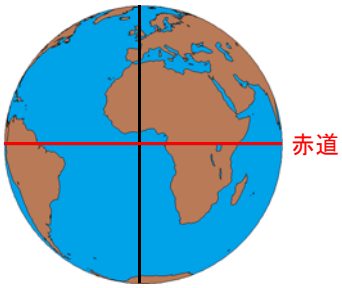


(2)　**州別人口**は，**アジア州＞アフリカ州＞ヨーロッパ州＞北アメリカ州**の順で，ＧＤＰは，**アジア州＞ヨーロッパ州＞北アメリカ州＞アフリカ州**の順になる。圧倒的にアフリカ州のＧＤＰ値が低いことに注目したい。

(3)　輸出額と割合がわかっている問題では，**（輸出総額）×（割合）を計算して判断する**ことがよく出されるから，注意しよう。割合は，1982 年から 2011 年にかけて 1.8%減っているが，輸出総額が 20 倍近く増えているため，輸出額は大幅に増えている。パーム油については，**コラム1**を参照。

**重要**(4)　資料４に示された地域は，ポルトガル，スペイン，フランス，イタリア，ルーマニアである。ルーマニアが入っていなければ，カトリックと考えられるが，**東ヨーロッパのルーマニアでは正教会が多く信仰**されている。これに注意すると，エのラテン系民族が導き出される。ヨーロッパの言語分布と宗教分布については，**参考資料1**を参照。わかりやすくするために国別に色分けしてあるが，実際には言語や宗教の境界は国ごとにならないことに注意しよう。

(5)　「乾燥帯」「ナイル川流域」の２つを盛り込んだ記述となっていればよい。古代エジプトの格言に「**エジプトはナイルのたまもの**」とあるように，エジプト人の生活はナイル川とともにあったと言っても過言ではない。

**重要**(6)　サトウキビやトウモロコシを発酵させてつくったエタノールを**バイオエタノール**という。燃焼するときに発生する二酸化炭素は，植物が成長途中で空気中から吸い込んだものと考えるので，**二酸化炭素の排出が少ないエネルギー**と考えられている。ブラジルではサトウキビ，アメリカではトウモロコシ，ヨーロッパでは甜菜（てんさい）をつかったバイオエタノールが生産されている。

**重要**(7)　時差を使った問題では，**一つの場所に統一して時刻を考える**の

**コラム1**

**パーム油**の原料は，**アブラヤシ**。インドネシア・マレーシアでの生産が多い植物です。
パーム油は**インスタントラーメン，スナック菓子などの食品類や石けん，洗剤**などにも使われています。あまり知られていないかもしれませんが，お菓子の食品表示欄にある「**植物油脂**」の多くがパーム油です。このパーム油を栽培・収穫するために，多くの熱帯雨林が切り開かれ消滅しています。

**参考資料1**

★ヨーロッパの言語分布

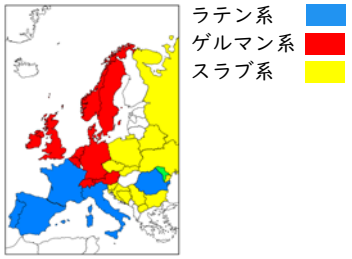


★ヨーロッパの宗教分布

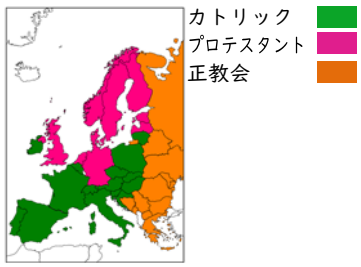

が最も混乱がない。その際，**15 度の経度差で 1 時間の時差が生じること**，**日付変更線をまたがずにより東側にある国のほうが，時刻が進んでいる**こと（西経 180 度＜西経 90 度＜ 0 度＜東経 90 度＜東経 180 度の順で時刻が進んでいる）に注意したい。

**参考資料2に，東経と東経に位置する国の場合（図 1），西経と西経に位置する国の場合（図 2），西経と東経に位置する国の場合（図 3）**の図例を示した。**（東経－東経）÷15，（西経－西経）÷15，（東経＋西経）÷15** の計算で求められることがわかる。

2　(1)　選挙権とは投票できる権利，被選挙権とは立候補できる権利である。2015 年に公職選挙法が改正されて，選挙権年齢が満 20 歳以上から，満 18 歳以上に変更された。

(2)　ウが誤り。国会は，衆議院議員総選挙後 30 日以内に行われる特別国会において，内閣総理大臣を国会議員の中から指名する。

重要 (3)　**公共の福祉**とは，**社会全体の共通の利益**を意味する。具体的に公共の福祉によって国民の権利が制限される例を挙げると，**薬剤師や医師などの国家資格により職業選択の自由が制限されること，空港や道路などの公共施設を建設するために，充分な保証金が支払われた後，住んでいた土地を引っ越さなければならない**という居住の自由が制限されることなどがある。

(4)　被爆地である広島を訪れた現職のアメリカ大統領は，**オバマ**氏であった。核保有国のアメリカ，イギリス，フランス，ロシア，中国は，国際連合の**安全保障理事会**の**常任理事国**である。

(5)　地方税のように地方公共団体が徴収する税収などを**自主財源**，**地方交付税交付金**や**国庫支出金**のように国や上位の地方公共団体から給付される収入などを**依存財源**という。依存財源のうち，使いみちを指定されないのが地方交付税交付金，使いみちを指定されるのが国庫支出金である。

3　(1)①　ヤルタ会談には，アメリカの**F・ルーズベルト**，イギリスの

重要 **チャーチル**，ソ連の**スターリン**が参加した。→**参考資料3**

②　1945 年 8 月 6 日広島に原爆投下→8 月 8 日ソ連の満州侵攻開始→8 月 9 日長崎に原爆投下→8 月 14 日ポツダム宣言受諾

(2)　エルサレムはイスラエルの都市である。

**参考資料2**

図 1

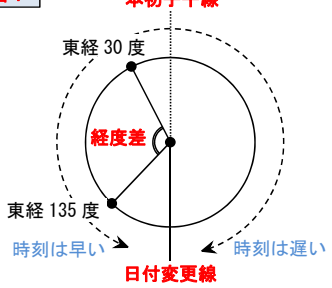


図 2

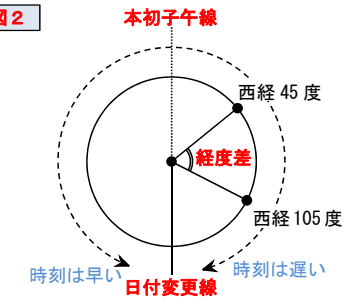


図 3

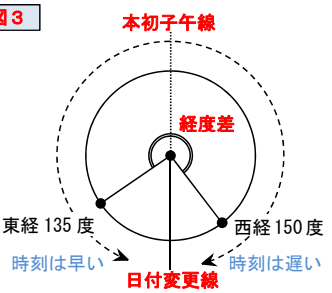


**参考資料3**　ヤルタ会談

スーパー 超ナビ

# 社会　第4回

1　(1)　資料１は，**永仁の徳政令**の一部である。**御家人の戦費はすべて自前**であり，恩賞をもらえることを前提に**多くの御家人が借金をして戦いに臨んでいた**。防衛戦であった**文永の役・弘安の役**では，**幕府から十分な恩賞が与えられなかった**ため，生活に苦しむ御家人が多かったという。「**蒙古襲来絵詞**（もうこしゅうらいえことば）→**コラム1**」は，功績を証明するために**竹崎季長**（たけざきすえなが）が描かせたと言われている。実際，季長は功績を認められて，肥後国（現在の熊本県）の所領を与えられた。

重要 (2)　ウが正しい。アについて，「**備中ぐわ**」「**千歯こき**」は江戸時代に発明された農具である。→**参考資料1**　ウについて，「**二毛作**」「**草木灰**」は鎌倉時代から始まった。エについて，「**荘園**」の発生は，平安時代のことである。

(3)　それぞれの関連ワードを挙げておくと，

**南北戦争**（1861 年アメリカ・リンカン・ゲティスバーグ・奴隷解放宣言・自由貿易と保護貿易・奴隷制・日米修好通商条約），

**フランス革命**（1789 年フランス・人権宣言・共和制・ナポレオン），

**宗教改革**（1517 年ヨーロッパ・ルター・贖宥状（しょくゆうじょう）・信仰・カルヴァン・労働・プロテスタント・カトリック・イエズス会・ザビエル），

**名誉革命**（1688 年イギリス・無血革命・国外から国王を招致・国王の権利を制限する権利章典）などがある。→**参考資料2**

(4)①　**大塩平八郎**が**大阪奉行所の元役人**であったこと，大阪は「**天下の台所**」と呼ばれ，米をはじめとする農産物の集積地であったことから，a を大阪と判断する。そうすれば天皇のいる c が京都と判断でき，アが導き出される。

②　資料２は「**尾張名所図会**」の一部である。

(5)　アについて，**統監府設立・初代統監に伊藤博文**→伊藤博文暗殺→**韓国併合**・**総督府**設立（1910 年）の流れを覚えておきたい。イとウについて，**義和団事件**（1900 年）は**日露戦争**の引き金となった事件である。**外国人やキリスト教宣教師を攻撃**した義和団が北京を占領すると，清朝の**西太后**は列強に対して宣戦布告をした。これに対し，イギリス・アメリカ・ドイツ・フランス・オーストリア・ロシア・日本の８か国は共同して出兵し，鎮圧に成功した。鎮圧後，ほとんどの国が兵を撤退させたにも関わらず，**ロシア軍は満州に兵を置き，事実上満州を制圧**した。満州と朝鮮半島が重要拠点と考える日本との間の緊張が高まったのはいうまでもな

**コラム1**

これらは，どちらも「**蒙古襲来絵詞**」です。文永の役と弘安の役のどちらかわかりますか？上が文永の役，下が弘安の役です。下の絵に，**石塁（防塁）が描かれている**ことがポイントです。

**参考資料1**　江戸時代の農具

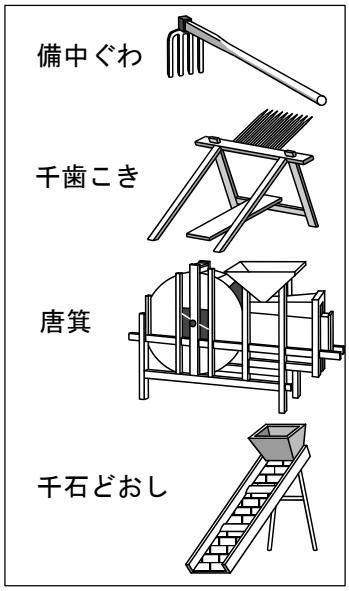


**参考資料2**

**エイブラハム・リンカン**
第 16 代アメリカ大統領
ゲティスバーグでの「**人民の，人民による，人民のための政治**」の言葉で知られる。また，アメリカで初めて暗殺された大統領でもある。

**マルティン・ルター（ドイツ）**
**ローマ教会**の**贖宥状**販売を批判し，「**95か条の論題**」を発表し，宗教改革を始めた。ルターはローマ教会から破門されながらも，聖書にもとづく信仰だけを拠りどころとして，ローマ教会の批判を続けた。

い。このとき，**ロシアの南下を恐れたイギリス**が**日英同盟**を結んだことで，日本はロシアとの戦争を決意する。→**参考資料3**

⑹　グラフ２から，６年間で銀行数が半分以下に減っていることを読み取る。グラフ１から銀行全体の預金高がわずかに減っていく中で，五大銀行の預金高が増加していることを読み取る。この２つの内容から，すべての銀行の中で五大銀行が占める預金割合が増加していることを導き出す。

２　⑴①　**北海道…漁業生産額・農業産出額が最も多い**

重要 **千葉県…京葉工業地域があるので製造品出荷額が多い**

**青森県…米や果実（りんご）の産出割合が高い**

**鹿児島県…畜産の割合が高い→参考資料4**

②　平均気温が４都市の中で最も高く，夏の降水量が多いことから，アは枕崎漁港である。９・10 月の降水量が多いこと，気温がアよりも低く他の２都市より高いことから，イは銚子漁港である。４都市の中で平均気温と年降水量が最も低く，梅雨の影響を受けていないことから，ウは釧路漁港である。

⑵①　国際法上，領土とつながっていると認定される大陸棚は，200 海里の外側であっても資源の保有を主張できる**延長大陸棚**と認められる場合がある。

②　メタンと水からできた**メタンハイドレート**は，氷のように見えるため，「**燃える氷**」と呼ばれる。→**参考資料5**

重要 ⑶　**とる漁業**と**育てる漁業**の違いをしっかりと確認しよう。育てる漁業には「**養殖漁業**」と「**栽培漁業**」がある。

３　⑴①　衆議院選挙では「**小選挙区比例代表並立制**」，参議院選挙では「**選挙区制**」と「**比例代表制**」がとられている。

②　小選挙区や選挙区制では候補者名を記入し，衆議院選挙の比例代表では政党名を，参議院選挙の比例代表では候補者名または政党名を記入する。

⑵　他の**国家権力から干渉されない**ことを「**司法権の独立**」という。

重要 ⑶　**国際連合**の**安全保障理事会**は，**５の常任理事国**と **10 の非常任理事国**によって構成され，15 の構成国のうちの**９か国以上が賛成し，かつ常任理事国のいずれも反対しないこと**が決議案の成立条件である。常任理事国が反対すると，**拒否権が発動**されたことになり，決議案は否決される。

**参考資料3**　日露戦争直前の風刺画

**参考資料4**　いろいろな都道府県の**生産量１位**を集めてみました。**太字は頻出**

北海道…甜菜・小豆・**じゃがいも**
青森県…**りんご**・にんにく
岩手県…養殖ワカメ
宮城県…サメ類・養殖ホヤ
山形県…**おうとう（さくらんぼ）**・西洋なし
茨城県…ピーマン・メロン・くり
栃木県…**いちご**・かんぴょう
群馬県…こんにゃく粉
埼玉県…中華めん・小松菜
千葉県…落花生・**ねぎ**・**日本なし**
神奈川県…チーズ
新潟県…**米**・切り餅・まいたけ
山梨県…**もも**・**ぶどう**
長野県…**レタス**・エリンギ
静岡県…**茶**・カツオ類
愛知県…あさり
三重県…真珠
和歌山県…**みかん**・梅・柿
兵庫県…マーガリン・清酒
島根県…しじみ
広島県…養殖カキ・レモン
徳島県…すだち・生しいたけ
香川県…**オリーブ**
愛媛県…いよかん・キウイフルーツ
高知県…**なす**・ゆず・しょうが
福岡県…たけのこ
佐賀県…養殖ノリ
長崎県…アジ類・タイ類・びわ
熊本県…**トマト**・スイカ・デコポン
大分県…カボス・干ししいたけ
宮崎県…**きゅうり**・肉用若鳥
鹿児島県…養殖ウナギ・豚肉
沖縄県…パイナップル・さとうきび

**全部の都道府県を入れることができなくてゴメンナサイ！**

**参考資料5**　メタンハイドレートの分布

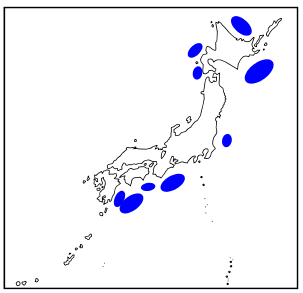

スーパー
超ナビ

# 社会　第5回

1　(1) a　世界の州は人口の多い順に，アジア州＞アフリカ州＞ヨーロッパ州＞南アメリカ州＞北アメリカ州＞オセアニア州となる。**→参考資料1**

b　世界の造山帯は，**古期造山帯**と**新期造山帯**がある。古期造山帯はなだらかな山脈であり，新期造山帯は，**環太平洋造山帯**と**アルプス・ヒマラヤ造山帯**などの高く険しい山脈である。環太平洋造山帯は，太平洋をとりまく**アンデス山脈**，**ロッキー山脈**，**日本列島**などであり，多くの活火山を含み，火山活動や地震活動が活発である。

(2)　現在イギリス連邦王国に所属しているのは，イギリス，ツバル，ニュージーランド，オーストラリア，ジャマイカ，カナダ，バハマなど16か国である。イギリス連邦王国は，イギリス国王を君主とするゆるやかな連合体であり，すべての加盟国が対等である。

(3)　オーストラリアは「**羊の背に乗った国**」と言われるほどの牧羊国家だから，Yは羊と判断できる。そうすれば，X(牛)の飼育頭数と農民1人あたりの農地面積からⅠがアメリカ合衆国とわかり，残ったⅡがニュージーランドとなる。

(4)　採掘方法には，**露天掘り**と**坑道掘り**がある。露天掘りの利点は，採掘が容易に行えることや危険が少ないことなど，問題点は，表面を広く開発するために，動植物の生態系をおびやかすことなどが挙げられる。

(5)　オーストラリアは，北部が熱帯地域，南西部と南東部が温帯地域，内陸部に乾燥帯地域が広がる。**→参考資料2**
都市Cは，オーストラリアの経済・文化の中心地であるシドニーであり，気候区分では温暖湿潤気候に属する。

(6)　**時差を求めるときは，時刻を1つの地点に統一**して考える。
68時間15分は2日と20時間15分だから，列車がパースに着いたときの都市Cの時刻は，9月7日午前11時10分である。このときのパースの時刻が9月7日午前9時10分だから，その差が時差になる。

(7)　日本の貿易の詳細は**参考資料3**を参照。

**参考資料1**

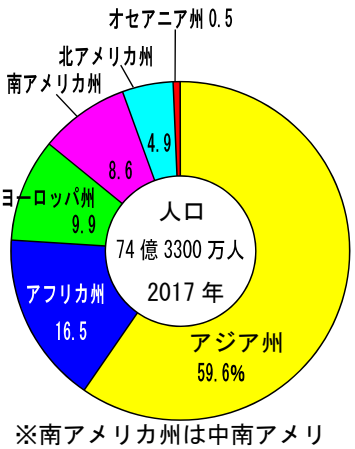


※南アメリカ州は中南アメリカとして計算してある。

**参考資料2**

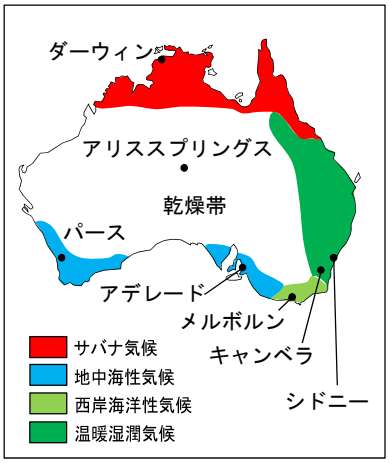


**参考資料3**

| 日本の貿易相手先上位国(2015) | | |
|---|---|---|
| 輸出 | 百万ドル | % |
| アメリカ合衆国 | 130 571 | 18.9 |
| 中国 | 126 347 | 18.3 |
| 韓国 | 51 525 | 7.5 |
| 輸入 | 百万ドル | % |
| 中国 | 180 889 | 22.3 |
| アメリカ合衆国 | 73 057 | 9.0 |
| オーストラリア | 48 127 | 5.9 |
| サウジアラビア | 47 537 | 5.1 |

2　⑴①　細かい年号がわからなくても，時代または人物から考える。
ア. 弥生時代のことであり，邪馬台国の女王とは**卑弥呼**である。
イ. **小野妹子**を**遣隋使**として送ったのは**聖徳太子**であり，遣隋使は飛鳥時代前半に派遣された。　ウ. **鑑真**が来日したのは奈良時代のことである。　エ. **白村江の戦い**で唐と新羅の連合軍に敗れたのは**中大兄皇子**(後の**天智天皇**)であり，中大兄皇子は聖徳太子の死後に勢力を強めた蘇我氏を倒し，**大化の改新**を進めた人物である。

②　**飛鳥文化**は，中国・インド・西アジアの影響を受けた，日本で最初の仏教文化である。**天平文化**は，国際色豊かな仏教文化で，特に**聖武天皇**と関係がある。イは**国風文化**，ウは**鎌倉文化**を代表する作品である。→**チェック**

⑵①　ウが正しい。　ア. **朱印状**は，17 世紀初頭の**朱印船貿易**で使われた。　イ. **座**は，室町時代の同業者の組合である。
エ. **株仲間の解散**は，19 世紀中ごろの**天保の改革**で行われた。

②　**化政文化**は，19 世紀前半に江戸を中心として栄えた町人文化である。資料から，化政文化の中心時期に寺子屋の年平均開業数が急激に増えたことがわかる。寺子屋で「読み・書き・そろばん」を教えていたことから，本を読むことができる人々が増えてきたことにつなげよう。

3　⑴　**議会制民主主義**は，**間接民主制**とも言われ，議会の代表者を選挙によって選出し，代表者が議会などで決定を行う制度である。議会では，各政党が発表した**マニフェスト**にそって，政策を実現するために討論し，さまざまな政策や法律を制定していく。

⑵①　資料２は，日本国憲法第 22 条第１項に定められた，**居住・移転及び職業選択の自由**についての規定である。

重要　②　**社会権**とは，人間らしく生きるための権利であり，社会権には，**生存権**，**教育を受ける権利**，**勤労の権利**，勤労者の**団結権**・**団体交渉権**・**団体行動権**などがある。アは環境権，ウは自由権(精神の自由)，オは自由権(経済活動の自由)にあたる。

③　大日本帝国憲法と日本国憲法の違いを明確にしておこう。
→**参考資料４**＋**コラム1**

**チェック**
キーワードから文化名を当ててください。
①**江戸の町人**を中心とした文化
②**国際色豊か**な仏教文化
③**公家と武家の文化が融合**した文化
④わが国**初の仏教**文化
⑤日本人の**生活・感情にあった優雅で洗練**された文化
⑥仏教色が薄れた**豪華で壮大**な文化
⑦**上方の町人**を中心とした文化
⑧**優美な公家文化**と**力強い武家文化**が**共存**した文化

答え
①化政文化　②天平文化　③室町文化
④飛鳥文化　⑤国風文化　⑥桃山文化
⑦元禄文化　⑧鎌倉文化
必ずこの文言で表されるわけではありませんが，よく出てくる言葉ですから覚えて損はないですよ。

**参考資料４**

| 大日本帝国憲法 | | 日本国憲法 |
|---|---|---|
| 天皇 | 主権 | 国民 |
| 元首 | 天皇の地位 | 象徴 |
| 法律の範囲内で認められる | 国民の権利 | すべての人が生まれながらに持つ |
| 兵役・納税 | 国民の義務 | 教育・納税・勤労 |
| 各大臣は天皇を助けて政治を行う | 内閣 | 国会に対し連帯して責任を負う |
| 天皇の名において裁判を行う | 裁判所 | 司法権は，他の機関から独立している |

**コラム1**
**大日本帝国憲法の草案は一度盗まれていた!!**

大日本帝国憲法は，伊藤博文らによって草案が作成されたことは，あまりにも有名な話です。しかし，憲法草案が盗まれたことはあまり知られていません。
大日本帝国憲法は，はじめ神奈川県横浜市金沢区の「東屋」という旅館で，起草されていた。いいペースで進んでいたことに気を良くした伊藤らは，ある夜，宴会を開いて酔いつぶれてしまう。そこに運悪く泥棒が入り，憲法草案は盗まれた。しかし，この泥棒は盗んだ物の重要性がわからなかったのでしょうか。金目のものだけ盗まれ，この草案は袋ごと塩田に放置された。盗まれた翌日に無事発見され，以後，憲法づくりは密室で行われたそうで……めでたし，めでたし？

スーパー 超ナビ

# 社会　第6回

1　(1)　奈良時代(奈良)，平安時代(京都)，鎌倉時代(鎌倉)，室町時代(京都)，安土桃山時代(滋賀・大阪)，江戸時代(江戸)と，政治の中心地は時代とともに移っていった。

重要 (2)　奈良時代の税については**参考資料1**を参照。**山上憶良**による貧窮問答歌は，農民の貧困と役人の過酷な税の取り立てを書き表した和歌である。**白村江の戦い**に敗れた**中大兄皇子**が，唐と新羅の攻撃に備えて北九州の警備のために置いたのが，防人のはじまりである。→**コラム1**

(3)　ア．東大寺南大門の金剛力士像は，鎌倉文化を代表するものである。　イ．雪舟は室町文化を代表する画僧である。　ウ．『解体新書』は，江戸時代に出版された。　エ．『源氏物語』や『枕草子』は，国風文化を代表する作品である。→**コラム2**

(4)　「太閤」から豊臣秀吉を導く。「太閤検地」では，土地の耕作者と土地の良し悪しなどが検地帳に記録された。

(5)①　綿花やあぶらな，野菜などの，売ることを目的として栽培する作物を**商品作物**という。「元禄のころから田舎へも銭が行きわたって…」とあることから，地方の農民たちにも貨幣経済が浸透していったことが読み取れる。

②　ア．名誉革命は 17 世紀後半(1688 年)のことである。
イ．宗教改革は 16 世紀前半(1517 年)から始まった。　ウ．ロシア革命は 20 世紀(1917 年)に起こった。　エ．フランス革命では，1789 年に人権宣言が出されている。

(6)　資料２から，輸入綿花に関税がかけられていることで，日本の綿産業が伸び悩み，外国市場において競争に負けていることがわかる。資料３から，1896 年から綿糸の輸出量が急激に伸びていることを読み取る。

(7)　満州国は，中国の東北部に建てられたからアが適当である。
イは朝鮮半島，ウは山東半島，エは現在の福建省を指している。

(8)　ＧＨＱ(連合国軍最高司令官総司令部)が進めた日本の民主化は，「**日本国憲法の制定**」の他，農業の民主化としての「**農地改革**」，経済の民主化としての「**財閥解体**」や「**労働組合法**，**労働基準法**の制定」，政治の民主化としての「**普通選挙法の改正**」などがある。

**参考資料1**

| 名称 | 内容 |
|---|---|
| 租 | 収穫した稲の約３％ |
| 調 | 布または特産物 |
| 庸 | 10 日間の労役にかわる布 |
| 雑徭 | 年間 60 日以内の労役 |
| 衛士 | １年間の都の警備 |
| 防人 | ３年間の九州北部の警備 |

## コラム1　2人の出会い

下の絵画は，「国史絵画」の１つ「中大兄皇子と中臣鎌足」です。２人の出会いは，中大兄皇子が蹴鞠をしていたときでした。皇子が鞠を蹴ったとき，勢い余って靴が脱げてしまった。その靴を拾い，丁寧に皇子に返したのが中臣鎌足である。そのときの光景が下の絵画である。中臣鎌足は，「乙巳の変」から始まる「大化の改新」において，皇子の重要なサポート役となりました。

## コラム2　藤原道長と紫式部

藤原道長は，藤原氏の全盛時の人物として知られています。その藤原道長と紫式部にはロマンスがあったのでは…？と言われています。紫式部は，藤原道長の長女彰子に仕えていました。彼女の『紫式部日記』の中に，藤原道長との関係を想像させるくだりがあるとか……。

長編小説『源氏物語』に出てくる美少年「光源氏」のモデルは藤原道長では？……と言われていたりもします。

2　⑴　３月から５月にかけて流水量が急激に増える信濃川の下流域では，洪水などの被害を受けないようにするために，大河津分水路や関屋分水路を設けて，流量の調整を行っている。

⑵①　よく出題される地図記号については，**参考資料2**を参照。

②　**（実際の距離）＝（地図上の長さ）×（縮尺の分母）**で求めることができるから，３×25000＝75000（㎝）＝750（m）

縮尺がはっきり書かれていない場合は，地図上の等高線などに注目することになる。等高線の**間隔が 20mであれば５万分の１，10mであれば２万５千分の１**であることは覚えておきたい。

⑶　東北・北海道以外で米の生産がさかんな地域は，新潟県や富山県などである。中部地方には，**中京工業地帯（愛知県）**や**東海工業地域（静岡県）**があるため，製造品出荷額等は他の地方より多いと判断できる。以上のことから中部地方はアである。東京の人口は1000 万人以上であり，首都圏人口は 3000 万人を超える。以上のことから，関東地方はウである。残ったイとエは中国・四国地方と近畿地方になる。大阪府や兵庫県を含む近畿地方の方が，人口も多く，製造品出荷額等も多いと判断できるから，イが中国・四国地方，エが近畿地方である。

3　⑴　**民事裁判**は，個人の間の権利・義務の対立を解決するための裁判であり，特に国や地方公共団体を相手取った裁判を**行政裁判**という。**刑事裁判**は，法律に違反する犯罪があったかどうかを判断し，あった場合はそれに対する刑罰を決める裁判である。

資料１は，原告・被告・和解などから民事裁判と判断できる。

⑵　**安全保障理事会**の**常任理事国**は，**ロシア・アメリカ・中国・イギリス・フランス**の５か国である。常任理事国は改選されず，審議に反対する**拒否権**をもつ。常任理事国が１国でも拒否権を発動させると，その議案は廃案となる。これらの常任理事国は**核保有国**でもある。→**参考資料3**

⑷　「**持続可能な社会**」とは，環境，経済のバランスを取りながら，**将来の世代も豊かで便利で快適な生活を手にすることができる社会**である。環境にやさしい社会は，温室効果ガスである二酸化炭素の排出を抑えた社会と言えるから，二酸化炭素の排出量を抑えつつ，国内総生産量を増やすことができている国ほど，持続可能な社会が実現できている国と判断できる。

**参考資料2**

- ⊗（警察署）
- X（交番）
- Y（消防署）
- 🏠（老人ホーム）
- 🏛（博物館・美術館）
- ⛩（神社）
- 卍（寺院）
- 🕮（図書館）
- ⏸（田）
- ⌄（畑）
- Q（広葉樹林）
- Λ（針葉樹林）
- ◎（市役所）
- ⊗（高等学校）
- ☆（小・中学校）
- 〒（郵便局）
- ⊞（病院）

**参考資料3**

現在核を保有している国（　）内は 2017 年現在で保有している核弾頭の推定数

- アメリカ（6800）
- ロシア（7000）
- 中国（270）
- イギリス（215）
- フランス（300）
- インド（約 120）
- パキスタン（約 130）
- 北朝鮮（不明）
- イスラエル（80）

スーパー
超ナビ

# 社会　第7回

1　⑴　空欄の直後にある「日宋貿易」に着目する。平清盛は，保元の乱(1156 年)・平治の乱(1159 年)に勝利して政治の実権をにぎると，1167 年には武士として初めて太政大臣の地位についた。また，大輪田泊(兵庫の港)を整備し，厳島神社に海路の安全を祈願して，日宋貿易を進めた。→コラム1

⑵①　代表的な律令に，701 年に定められた大宝律令があげられる。大宝律令は文武天皇の命令で，藤原不比等や刑部親王(おさかべ)らによって編纂された。

②　『古事記』は稗田阿礼(ひえだのあれ)が※1誦習(しょうしゅう)していた内容を太安万侶がまとめたものである。『日本書紀』は 720 年に舎人親王らが編纂したものである。『古事記』には神話の時代～推古天皇の時代までが※2紀伝体で書かれている。『日本書紀』には神話の時代～持統天皇の時代までが※3編年体で書かれている。

※1 誦習(しょうしゅう)…繰り返し口に出して覚えること

※2紀伝体…ある人物の逸話に関するできごとを中心にまとめる書式

※3編年体…起こったできごとを年月の順にまとめる書式

⑶①　毎月決められた日に開かれる市を定期市という。当初は，月に 3 回開かれる三斎市が一般的だったが，開かれる回数が増え，月に 6 回開かれる六斎市が一般的となった。

②　アの**馬借**とイの**問**は，中世に活躍した運送業者である。

馬借…馬の背に物資を乗せて運ぶ運送業者
車借…荷車を牛に引かせて物資を運ぶ運送業者　} 陸

問(問屋)…運送業と倉庫業を兼ねる業者　} 海・川

⑷①　代表的な分国法に，甲斐の武田氏の『甲州法度之次第』・朝倉氏の『朝倉孝景条々』・今川氏の『今川仮名目録』などがあげられる。→コラム2

②　ア．チンギス・ハンによるモンゴル帝国の建国は 13 世紀初頭(1206 年)のできごとである。モンゴル帝国は，1271 年，**フビライ・ハン**のとき，国号を**元**と改めた。　イ．マゼラン艦隊による世界一周は 16 世紀(1522 年)のできごとである。15～17 世紀は大航海時代にあたるので，覚えておこう。なお，マゼラン自身は 1521 年にフィリピンで原住民に殺害された。

ウ．ナポレオンによるヨーロッパ諸国の征服は 19 世紀初頭のできごとである。ナポレオンはイギリスを除くヨーロッパ諸国

## コラム1

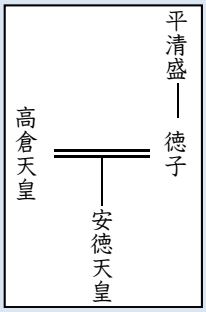

＝は夫婦関係を示す

平清盛は，自らの娘(建礼門院徳子)を天皇に嫁がせ，生まれた子を次の天皇に立て，自らは天皇の外戚として政治の実権をにぎりました――ってこれ，何だか聞き覚えのある話ですね。そう，平清盛は，**摂関政治**で隆盛をきわめた藤原氏と似た方法で政治の実権をにぎったのです。

実は，上の系図は過去に公立高校の入試で出題されたものです(2013 年長崎)。本番で見慣れない資料が出てきても，ほとんどの問題は学習してきた内容で太刀打ちできるようにつくられています。難問にぶち当たったら，パニックになる前に大きく息を吸って，どこから攻めたらいいか戦略を練りましょう。

## コラム2

『甲州法度之次第』には「喧嘩をした者は，いかなる理由によるものでも処罰する」と定められています。なぜ，このような規定が設けられたのでしょうか。

血を血で洗う戦国時代，現代における警察や裁判所はまともに機能せず，「自力救済」が基本となっていました。何か訴えたいことがあれば自力で何とかする。そして，それは相手も同じ。お互いの言い分がかみ合わなければ喧嘩になり，個人的な喧嘩は集団的な喧嘩(≒戦)になることもしばしばでした。そこで戦国大名は喧嘩両成敗の規定をつくり，自力救済の考えを否定しました。これによって，喧嘩になりそうな火種は，大名が裁くということが明文化されたのです。

を支配下におき，ナポレオン法典を制定するなどした。しかし，ロシア遠征に失敗すると敗戦が続き，皇帝を退位するとエルバ島，次いでセントヘレナ島へ流され，そこで没した。

エ．アメリカ独立戦争は 18 世紀後半(1775～1783 年)のできごとである。イギリスの植民地となっていたアメリカ東海岸の人々は，自分たちの意見を聞かずに新しい税を課そうとするイギリス本国に不満を持ち，1773 年，ボストンに運ばれてきた茶箱を海に投げ捨てた(ボストン茶会事件)。これをきっかけとして，植民地の人々は立ち上がり，1775 年にアメリカ独立戦争が始まった。

重要 (5)　**参考資料1**は，江戸時代の主な改革を示したものである。**田沼意次**は株仲間の経済力に目を付けて経済を活性化させるために**株仲間を奨励**し，**水野忠邦**は株仲間の存在が物価の上昇の原因であると考え，**株仲間の解散**を命じた。なお，実際には株仲間の存在が物価の上昇の原因ではなかったため，株仲間が解散すると流通は混乱してしまい，のちに株仲間は再興された。

重要 (6)①　1854 年に結ばれた**日米和親条約**では，下田(静岡県)・函館(北海道)の２つが給水などのための寄港地として開かれ，1858 年に結ばれた**日米修好通商条約**では，横浜(神奈川)・神戸(兵庫)・長崎・新潟・函館の５つが貿易港として開かれた。日本はアメリカのほか，イギリス・フランス・ロシア・オランダとも同様の内容の修好通商条約を結び，これらをまとめて安政の五か国条約という。

②　**領事裁判権**とは，日本にいる外国人が罪を犯しても，日本の法律では裁かれず，本国の法律で裁判を受ける権利のことである。**関税自主権**とは，国家が輸入品に対して自由に関税をかけることができる権利のことである。1894 年，外務大臣**陸奥宗光**が，イギリスとの間で領事裁判権(治外法権)の**撤廃**に成功し，1911 年，外務大臣**小村寿太郎**が，アメリカとの間で関税自主権の完全**回復**に成功した。→**コラム3**

(7)①　薩摩藩(現在の鹿児島県)出身の**西郷隆盛**は，大久保利通らに征韓論を反対された後，政府を去り鹿児島に帰郷した。その後，鹿児島の不平士族らにかつぎあげられ，西南戦争を起こし，敗れて亡くなった。このような経歴を持つ西郷隆盛は，「地元鹿

**参考資料1**

| 政治 | 人物 | 主な内容 |
|---|---|---|
| 享保の改革(1716～1745 年) | 徳川吉宗 | ・参勤交代の期間を短縮する代わりに，幕府に米を納めさせる(上げ米の制)<br>・民衆の意見を広く取り入れる目安箱を設置する<br>・裁判の基準となる公事方御定書を制定する<br>・民間による新田開発を奨励する<br>・青木昆陽にさつまいもの研究を行わせる |
| 田沼意次の政治 | 田沼意次 | **・株仲間を奨励し，営業税を徴収する**<br>・長崎貿易を活発化させる<br>・蝦夷地の調査や印旛沼の干拓を行う |
| 寛政の改革(1787～1793 年) | 松平定信 | ・湯島に昌平坂学問所をつくる<br>・旗本や御家人の借金を帳消しにさせる(棄捐令)<br>・江戸に出かせぎに出ていた農民に村に帰るよう勧める(旧里帰農令)<br>・１万石につき 50 石の米を，社倉や義倉と呼ばれる穀物倉に備蓄させる(囲い米の制) |
| 天保の改革(1841～1843 年) | 水野忠邦 | **・株仲間の解散を命じる**<br>・江戸に出かせぎに来ている農民を村に帰らせる(人返し令)<br>・江戸や大阪周辺を直轄地にしようとする(上知令)<br>・政治批判や風紀を乱す小説の出版を禁止する |

**コラム3**

領事裁判権とからめてよく出てくる上の絵。その題名は『メンザレ号の救助』です。この絵は確かにノルマントン号事件を風刺したものです。しかし，この絵を描いたフランス人ビゴーは領事裁判権の撤廃を望んでいたわけではありませんでした。

児島のために戦った素朴で温かい人物」として描かれることが多い。一方，同じく薩摩藩出身の**大久保利通**は，岩倉使節団の一員として欧米に渡り，帰国した後，政府の中心人物として士族の特権を廃止する秩禄処分を行った。そのため，「地元鹿児島に対する愛着のない冷たい人物」として描かれることが多い。

② エ．**文明開化**の風潮が広まると，人々の間で洋風の服が流行したり，れんが造りの建物やガス灯などがつくられたりした。また，太陽暦が採用され，１日を 24 時間，１週間を７日とすることなどが定められた。アとイは大正時代，ウは幕末のできごとである。

**2** (1) 日本列島の東に広がる海洋だから，太平洋が正答となる。世界三大洋として，太平洋・大西洋・インド洋がある。

(2) 通常，地図は上が北を指す。リード文に，「地図は中心からの距離と方位が正しい図法(＝正距方位図法)で描かれている」とあるので，見逃さないようにしよう。

(3) 次の空欄を埋めてみよう。

「地球を１周する経線は，(　ⓐ　)と(　ⓑ　)に分かれ，経度の和は(　ⓒ　)度になる」

答えは，本紙の《第３回》の解説にある。万が一わからないところがあれば必ず確認しておこう。

**重要** (4) 熱帯のうち，熱帯雨林気候は１年を通して雨が多い気候，サバナ気候は雨季と乾季がある気候である。 a は乾燥帯の砂漠気候，c は温帯の地中海性気候に属する。**参考資料2**は，特によく出てくる３つの気候帯(気候区分)を示したものである。気候帯の特徴は確実におさえておこう。

(5) Aはブラジル，Bはオーストラリアである。ア．ブラジルがあてはまらない。ブラジルは，ポルトガルにより開拓された。

ウ．ともにあてはまらない。ブラジル・オーストラリアともに沿岸部に人口が集中している。　エ．オーストラリアがあてはまらない。オーストラリアの内陸部には広大な砂漠が広がっている。オーストラリア大陸は乾燥大陸とも呼ばれるので，合わせて覚えておこう。

(6) フランスやドイツの位置は一般常識として覚えておきたい。

**参考資料2**

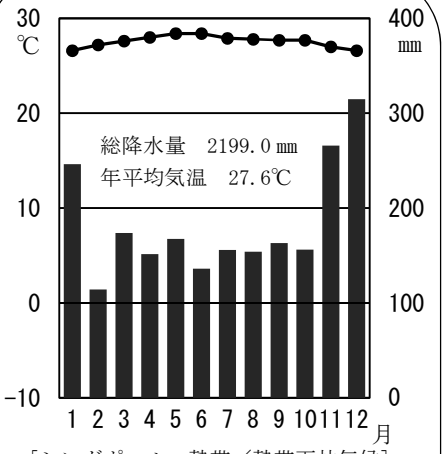


［シンガポール　熱帯／熱帯雨林気候］
○１年を通して高温
○１年を通して雨が降る

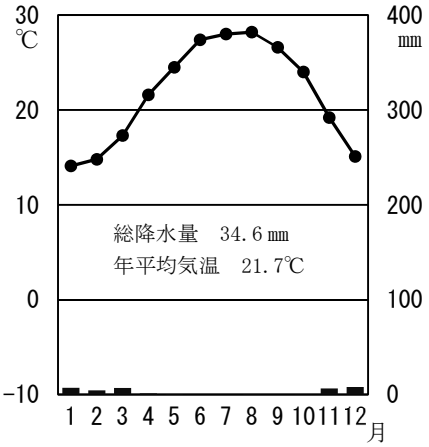


［カイロ　乾燥帯／砂漠気候］
○１年を通してほとんど雨が降らない

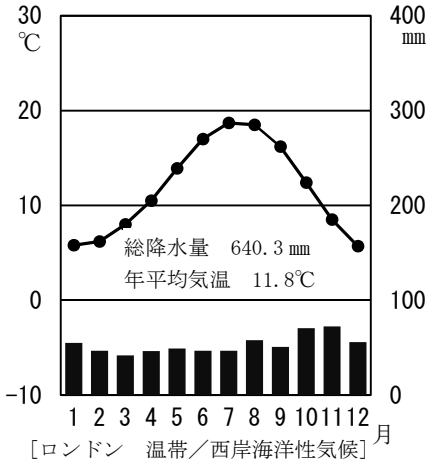


［ロンドン　温帯／西岸海洋性気候］
○冬でも(１年を通して)温暖である
○１年を通して雨が降る

航空機の各部品は，イギリス・スペインなどで製作されたものがフランスのトゥールーズやドイツのハンブルクに輸送され，そこで組み立てられている。**ＥＵ（ヨーロッパ連合）**加盟国間の貿易には関税がかからないため，このような国際分業が進められてきたが，2016 年６月にイギリスがＥＵ離脱を決定したことで今後はイギリスとの貿易で関税がかかる可能性があり，イギリスの動向が注目されている。→**コラム4**

3　(1)　**二院制**は**両院制**ともいう。二院制の欠点には，「意思決定に時間がかかること」などがあげられる。

**重要**　(2)　法律の再議決は，衆議院の優越の一つである。衆議院の優越にはこのほか，予算の先議権・予算の議決・内閣総理大臣の指名・条約の承認などがあげられる。

(3)　イは天皇の国事行為，ウは国会の仕事，エは地方公共団体の仕事にあたる。

(4)　衆議院には**解散**があり，参議院より**任期が短く，主権者の意思をより反映している**といえるため，より強い権限が与えられている。

(5)　マスメディアから発信される情報をそのまま受け取らず，自分でさまざまな角度からその情報を解釈するメディアリテラシーの能力が，今後ますます重要になっていくと考えられている。

リテラシー(literacy)…読み書き能力。また，必要な情報を取捨選択し，活用する能力。

**コラム4**

2016 年６月に，イギリスで国民投票が行われ，ＥＵ離脱が決定されました。離脱派 51.9%，残留派 48.1%の大接戦でした。今回はこの国民投票を詳細に分析してみます。

イギリス本国は，イングランド・ウェールズ・スコットランド・北アイルランドで構成されます。このうち，イングランド・ウェールズは離脱派が多数を占め，スコットランド・北アイルランドは残留派が多数を占めました。また，首都である**ロンドン**で残留派が多数を占めたことはニュースで聞いた人も多いでしょう。残留派が多数を占めたスコットランドでは，再び**イギリスからの独立論が巻き起こりました**。

さらに，高学歴のいわゆるインテリ層ほど，また**若い世代**ほど，残留派が多数を占めるという傾向もみられました。

ＥＵを離脱することにより，イギリスは**移民や難民の受け入れ**を多少は制限できるようになります。また，経済に関する政策を自主的に決めることができるようになります。

一方で，ロンドンは**ＥＵの金融の中心地**として機能してきました。ＥＵを離脱すれば，ロンドンをＥＵの拠点としてきた企業はＥＵ域内に本拠地を移す可能性が高く，今後**イギリスの影響力の低下**は避けられないでしょう。

ＥＵ離脱をめぐる動きはイギリスだけの問題ではありません。イタリア・フランス・ドイツなどでも，ＥＵ離脱を訴える政党が台頭しています。今後，どのような展開が待ち受けているにせよ，私たちも決して無関係ではいられません。

「僕の一票が影響してしまうなんて思わなかったんです。残留するもんだって思ってたから」

これは，ＢＢＣのインタビューを受けた，離脱に投票したある男性の言葉です。将来，みなさんが選挙権を持ったときに，このような後悔をすることがないようにしてくださいね。